1. В треугольнике ABC $AC = BC = 5$, $\sin A = \frac{7}{25}$. Найдите AB.

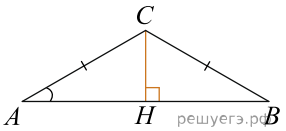

2. В треугольнике ABC $AC = BC$, $AB = 9{,}6$, $\sin A = \frac{7}{25}$. Найдите AC.

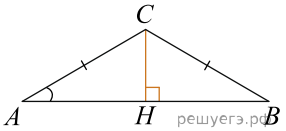

3. В треугольнике ABC $AC = BC = 8$, $\cos A = 0{,}5$. Найдите AB.

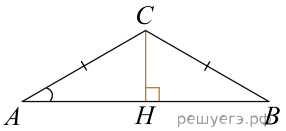

4. В треугольнике ABC $AC = BC$, $AB = 8$, $\cos A = 0{,}5$. Найдите AC.

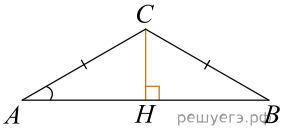

5. В треугольнике ABC $AC = BC = 7$, $\operatorname{tg} A = \frac{33}{4\sqrt{33}}$. Найдите AB.

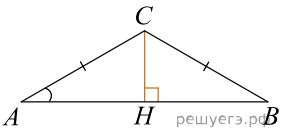

6. В треугольнике ABC $AC = BC$, $AB = 8$, $\operatorname{tg} A = \frac{33}{4\sqrt{33}}$. Найдите AC.

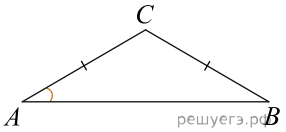

7. В треугольнике ABC $AC = BC$, $AB = 8$, $\sin BAC = 0{,}5$. Найдите высоту AH.

8. В треугольнике ABC $AC = BC$, AH — высота, $AB = 5$, $\sin BAC = \frac{7}{25}$. Найдите BH.

9. В треугольнике ABC $AC = BC$, $AB = 5$, $\cos \angle BAC = \frac{7}{25}$. Найдите высоту AH.

10. В треугольнике ABC $AC =$ BC, AH — высота, $AB = 8$, $\cos BAC = 0{,}5$. Найдите BH.

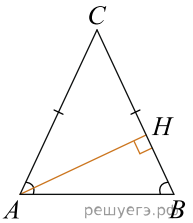

11. В треугольнике ABC $AC = BC$, $AB = 7$, $\operatorname{tg} BAC = \dfrac{4\sqrt{33}}{33}$. Найдите высоту AH.

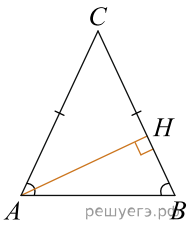

12. В треугольнике ABC $AC = BC$, AH — высота, $AB = 7$, $\operatorname{tg} BAC = \dfrac{33}{4\sqrt{33}}$. Найдите BH.

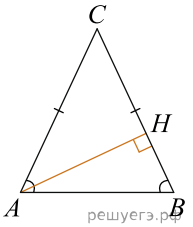

13. В треугольнике ABC $AC = BC = 4\sqrt{15}$, $\sin BAC = 0,25$. Найдите высоту AH.

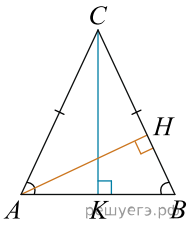

14. В треугольнике ABC $AC = BC = 27$, AH — высота, $\sin BAC = \dfrac{2}{3}$. Найдите BH.

15. В треугольнике ABC $AC = BC = 4\sqrt{15}$, $\cos BAC = 0,25$. Найдите высоту AH.

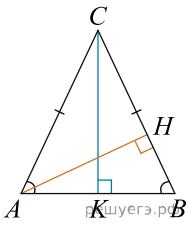

16. В треугольнике ABC $AC = BC = 27$, AH — высота, $\cos BAC = \dfrac{2}{3}$. Найдите BH.

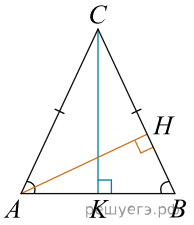

17. В треугольнике ABC $AC = BC$, высота AH равна 4, $AB = 8$. Найдите синус угла BAC.

18. В треугольнике ABC $AC = BC$, высота AH равна 20, $AB = 25$. Найдите $\cos BAC$.

19. В тупоугольном треугольнике ABC $AC = BC = 8$, высота AH равна 4. Найдите $\sin ACB$.

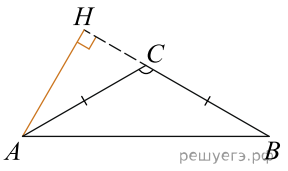

20. В тупоугольном треугольнике ABC $AC = BC = 25$, высота AH равна 20. Найдите $\cos ACB$.

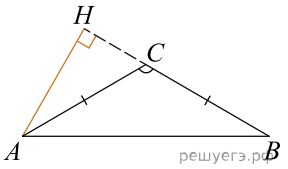

21. В тупоугольном треугольнике ABC $AC = BC = 4\sqrt{5}$, высота AH равна 4. Найдите $\operatorname{tg} ACB$.

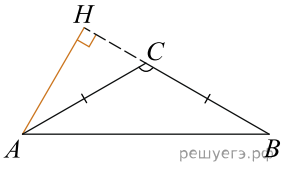

22. В тупоугольном треугольнике ABC $AC = BC = 8$, AH — высота, $CH = 4$. Найдите $\cos ACB$.

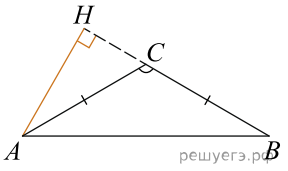

23. В тупоугольном треугольнике ABC $AC = BC = \sqrt{17}$, AH — высота, $CH = 4$. Найдите $\operatorname{tg} ACB$.

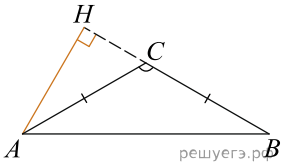

24. В тупоугольном треугольнике ABC $AC = BC$, высота AH равна 7, $CH = 24$. Найдите $\sin ACB$.

25. В тупоугольном треугольнике ABC $AC = BC$, высота AH равна 24, $CH = 7$. Найдите $\cos ACB$.

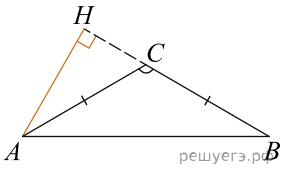

26. В тупоугольном треугольнике ABC $AC = BC$, высота AH равна 4, $CH = 8$. Найдите $\operatorname{tg} ACB$.

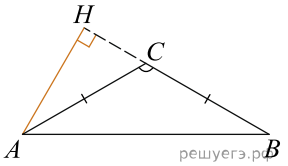

27. Угол при вершине, противолежащей основанию равнобедренного треугольника, равен 30°. Боковая сторона треугольника равна 10. Найдите площадь этого треугольника.

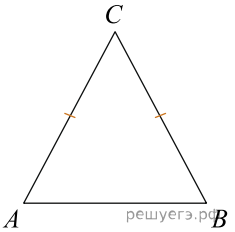

28. Угол при вершине, противолежащей основанию равнобедренного треугольника, равен 150°. Боковая сторона треугольника равна 20. Найдите площадь этого треугольника.

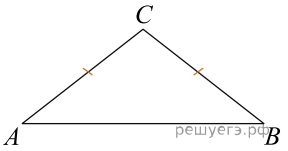

29. Боковая сторона равнобедренного треугольника равна 5, а основание равно 6. Найдите площадь этого треугольника.

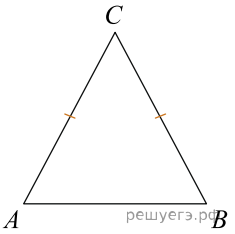

30. Угол при вершине, противолежащей основанию равнобедренного треугольника, равен 30°. Найдите боковую сторону треугольника, если его площадь равна 25.

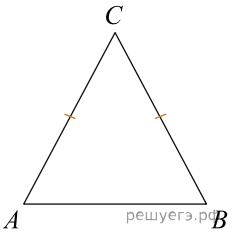

31. Угол при вершине, противолежащей основанию равнобедренного треугольника, равен 150°. Найдите боковую сторону треугольника, если его площадь равна 100.

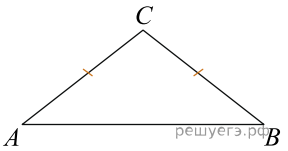

32. В треугольнике ABC угол A равен 38°, $AC = BC$. Найдите угол C. Ответ дайте в градусах.

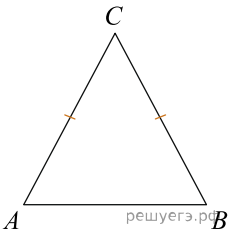

33. В треугольнике ABC угол C равен 118°, $AC = BC$. Найдите угол A. Ответ дайте в градусах.

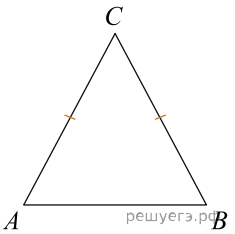

34. В треугольнике ABC $AC = BC$, угол C равен 52°. Найдите внешний угол CBD. Ответ дайте в градусах.

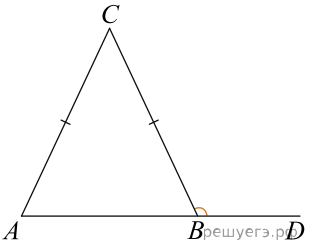

35. В треугольнике ABC $AC = BC$. Внешний угол при вершине B равен 122°. Найдите угол C. Ответ дайте в градусах.

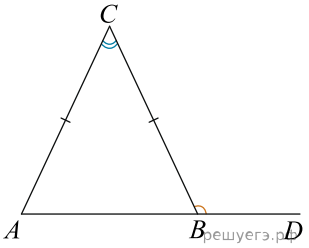

36. В треугольнике ABC $AB = BC$. Внешний угол при вершине B равен 138°. Найдите угол C. Ответ дайте в градусах.

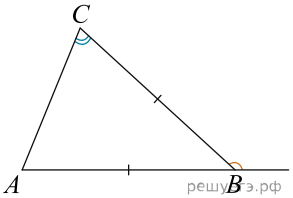

37. Больший угол равнобедренного треугольника равен 98°. Найдите меньший угол. Ответ дайте в градусах.

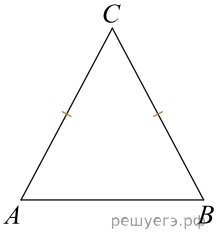

38. Один угол равнобедренного треугольника на 90° больше другого. Найдите меньший угол. Ответ дайте в градусах.

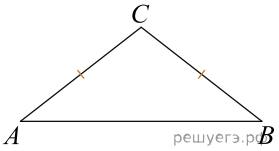

39. В треугольнике ABC $AC = BC$, AD — высота, угол BAD равен 24°. Найдите угол C. Ответ дайте в градусах.

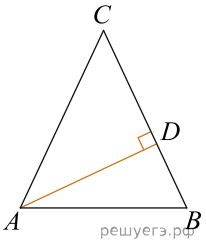

40. В треугольнике ABC $AB = BC = AC = 2\sqrt{3}$. Найдите высоту CH.

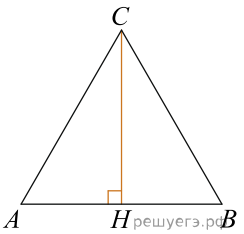

41. В равностороннем треугольнике ABC высота CH равна $2\sqrt{3}$. Найдите стороны этого треугольника.

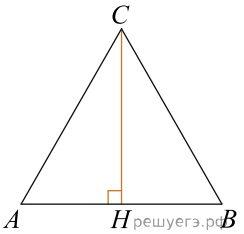

42. В треугольнике ABC $AC = BC$, $AB = 4$, высота CH равна $2\sqrt{3}$. Найдите угол C. Ответ дайте в градусах.

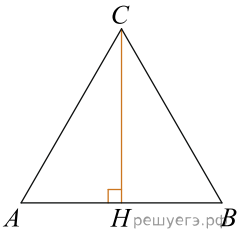

43. В треугольнике ABC $AC = BC = 4$, угол C равен 30°. Найдите высоту AH.

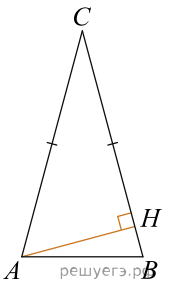

44. В остроугольном треугольнике ABC известно, что $AC = BC = 6$, высота AH равна 3. Найдите угол C. Ответ дайте в градусах.

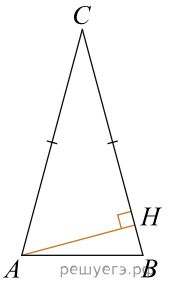

45. В треугольнике ABC $AC = BC$, высота AH равна 4, угол C равен 30°. Найдите AC.

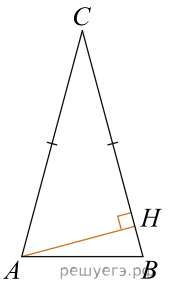

46. В треугольнике ABC $AC = BC = 2\sqrt{3}$, угол C равен 120°. Найдите высоту AH.

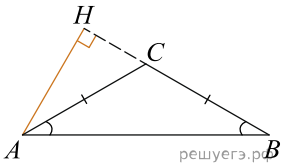

47. В треугольнике ABC $AC = BC$, угол C равен 120°, $AB = 2\sqrt{3}$. Найдите AC.

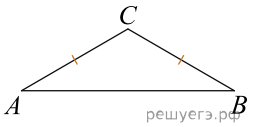

48. В треугольнике ABC $AC = BC$, угол C равен 120°, $AC = 2\sqrt{3}$. Найдите AB.

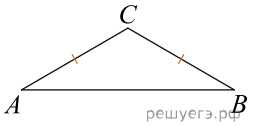

49. В треугольнике ABC известно, что $AC = BC = 21$, $\operatorname{tg}\angle A = 2\sqrt{2}$. Найдите длину стороны AB.

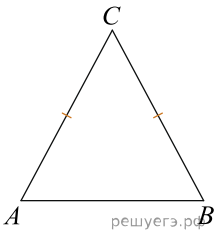
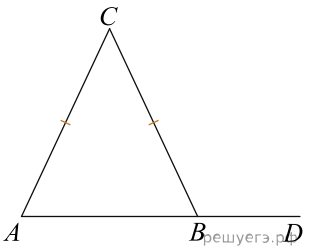
50. В равнобедренном треугольнике ABC с основанием AB внешний угол при вершине B равен 124°. Найдите величину угла A треугольника ABC. Ответ дайте в градусах.