**1.** На рисунке изображён график функции вида $f(x)=\dfrac{a}{x+b}+c$, где числа $a$, $b$ и $c$ — целые. Найдите $f(13)$.

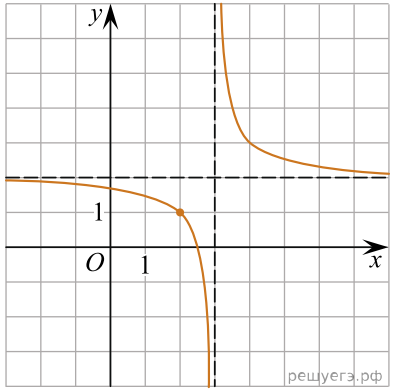


**2.**
На рисунке изображён график функции вида $f(x)=a+\dfrac{b}{x-c}$, где числа $a$, $b$ и $c$ — целые. Найдите $f(-6)$.

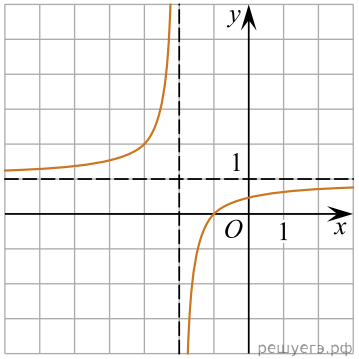




**3.** На рисунке изображён график функции вида $f(x)=\dfrac{ax+b}{x+c}$, где числа $a$, $b$ и $c$ — целые. Найдите $c$.

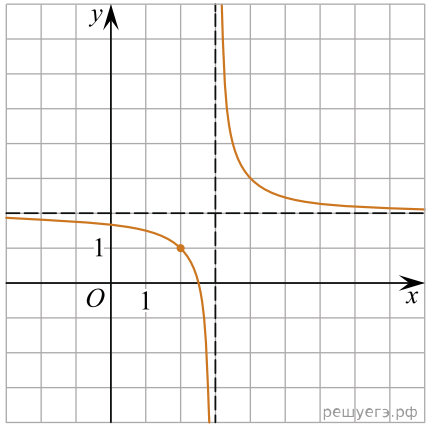


**4.** На рисунке изображён график функции вида $f(x)=\dfrac{ax+b}{x+c}$, где числа $a$, $b$ и $c$ — целые. Найдите $b$.

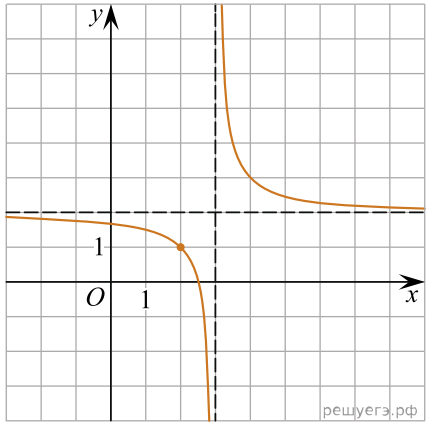
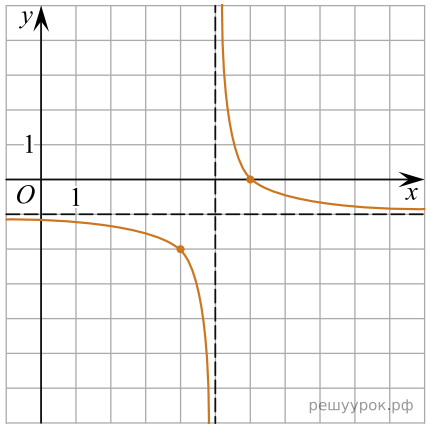
**5.** На рисунке изображён график функции вида $f(x) = \dfrac{a}{x+b} + c$, где числа $a$, $b$ и $c$ — целые. Найдите значение $x$, при котором $f(x) = -1,125$.