Варианты заданий

1.

Площадь боковой поверхности треугольной призмы равна 24. Через среднюю линию основания призмы проведена плоскость, параллельная боковому ребру. Найдите пло-щадь боковой поверхности отсечённой треугольной призмы.

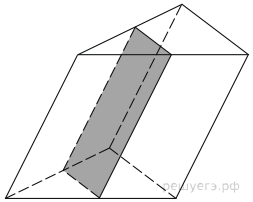

2.

Площадь боковой поверхности треугольной призмы равна 38. Через среднюю линию основания призмы проведена плоскость, параллельная боковому ребру. Найдите пло-щадь боковой поверхности отсечённой треугольной призмы.

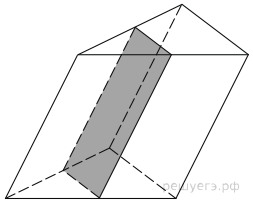

3.

Площадь боковой поверхности треугольной призмы равна 43. Через среднюю линию основания призмы проведена плоскость, параллельная боковому ребру. Найдите площадь боковой поверхности отсечённой треугольной призмы.

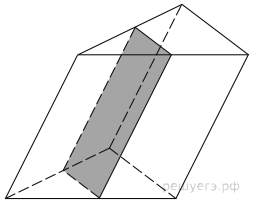

4.

Площадь боковой поверхности треугольной призмы равна 6. Через среднюю линию основания призмы проведена плоскость, параллельная боковому ребру. Найдите пло-щадь боковой поверхности отсечённой треугольной призмы.

5.

Площадь боковой поверхности треугольной призмы равна 26. Через среднюю линию основания призмы проведена плоскость, параллельная боковому ребру. Найдите пло-щадь боковой поверхности отсечённой треугольной призмы.

6.

Площадь боковой поверхности треугольной призмы равна 28. Через среднюю линию основания призмы проведена плоскость, параллельная боковому ребру. Найдите пло-щадь боковой поверхности отсечённой треугольной призмы.

7.

Площадь боковой поверхности треугольной призмы равна 4. Через среднюю линию основания призмы проведена плоскость, параллельная боковому ребру. Найдите пло-щадь боковой поверхности отсечённой треугольной призмы.

8.

Площадь боковой поверхности треугольной призмы равна 34. Через среднюю линию основания призмы проведена плоскость, параллельная боковому ребру. Найдите пло-щадь боковой поверхности отсечённой треугольной призмы.

9.

Площадь боковой поверхности треугольной призмы равна 96. Через среднюю линию основания призмы проведена плоскость, параллельная боковому ребру. Найдите пло-щадь боковой поверхности отсечённой треугольной призмы.

10.

Площадь боковой поверхности треугольной призмы равна 54. Через среднюю линию основания призмы проведена плоскость, параллельная боковому ребру. Найдите пло-щадь боковой поверхности отсечённой треугольной призмы.

11.

Площадь боковой поверхности треугольной призмы равна 82. Через среднюю линию основания призмы проведена плоскость, параллельная боковому ребру. Найдите пло-щадь боковой поверхности отсечённой треугольной призмы.

12.

Площадь боковой поверхности треугольной призмы равна 2. Через среднюю линию основания призмы проведена плоскость, параллельная боковому ребру. Найдите пло-щадь боковой поверхности отсечённой треугольной призмы.

13.

Площадь боковой поверхности треугольной призмы равна 40. Через среднюю линию основания призмы проведена плоскость, параллельная боковому ребру. Найдите пло-щадь боковой поверхности отсечённой треугольной призмы.

14.

Площадь боковой поверхности треугольной призмы равна 76. Через среднюю линию основания призмы проведена плоскость, параллельная боковому ребру. Найдите пло-щадь боковой поверхности отсечённой треугольной призмы.

15.

Площадь боковой поверхности треугольной призмы равна 14. Через среднюю линию основания призмы проведена плоскость, параллельная боковому ребру. Найдите пло-щадь боковой поверхности отсечённой треугольной призмы.

16.

Площадь боковой поверхности треугольной призмы равна 18. Через среднюю линию основания призмы проведена плоскость, параллельная боковому ребру. Найдите пло-щадь боковой поверхности отсечённой треугольной призмы.

17.

Площадь боковой поверхности треугольной призмы равна 60. Через среднюю линию основания призмы проведена плоскость, параллельная боковому ребру. Найдите пло-щадь боковой поверхности отсечённой треугольной призмы.

18.

Площадь боковой поверхности треугольной призмы равна 30. Через среднюю линию основания призмы проведена плоскость, параллельная боковому ребру. Найдите пло-щадь боковой поверхности отсечённой треугольной призмы.

19.

Площадь боковой поверхности треугольной призмы равна 44. Через среднюю линию основания призмы проведена плоскость, параллельная боковому ребру. Найдите пло-щадь боковой поверхности отсечённой треугольной призмы.

20.

Площадь боковой поверхности треугольной призмы равна 62. Через среднюю линию основания призмы проведена плоскость, параллельная боковому ребру. Найдите пло-щадь боковой поверхности отсечённой треугольной призмы.

21.

Площадь боковой поверхности треугольной призмы равна 68. Через среднюю линию основания призмы проведена плоскость, параллельная боковому ребру. Найдите пло-щадь боковой поверхности отсечённой треугольной призмы.

22.

Площадь боковой поверхности треугольной призмы равна 24. Через среднюю линию основания призмы проведена плоскость, параллельная боковому ребру. Найдите пло-щадь боковой поверхности отсечённой треугольной призмы.

23.

Площадь боковой поверхности треугольной призмы равна 42. Через среднюю линию основания призмы проведена плоскость, параллельная боковому ребру. Найдите пло-щадь боковой поверхности отсечённой треугольной призмы.

24.

Площадь боковой поверхности треугольной призмы равна 52. Через среднюю линию основания призмы проведена плоскость, параллельная боковому ребру. Найдите пло-щадь боковой поверхности отсечённой треугольной призмы.

25.

Площадь боковой поверхности треугольной призмы равна 12. Через среднюю линию основания призмы проведена плоскость, параллельная боковому ребру. Найдите пло-щадь боковой поверхности отсечённой треугольной призмы.

26.

Площадь боковой поверхности треугольной призмы равна 84. Через среднюю линию основания призмы проведена плоскость, параллельная боковому ребру. Найдите пло-щадь боковой поверхности отсечённой треугольной призмы.